# Inégalités

*Alain Brobecker, mars 2010*

Remplir les cases vides pour que les nombres de 1 à 6 soient utilisés et que les signes «plus petit que»(<) et «plus grand que»(>) soient respectés.

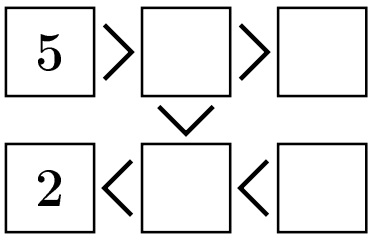


Remplir les cases vides pour que les nombres de 1 à 9 soient utilisés et que les signes «plus petit que»(<) et «plus grand que»(>) soient respectés.

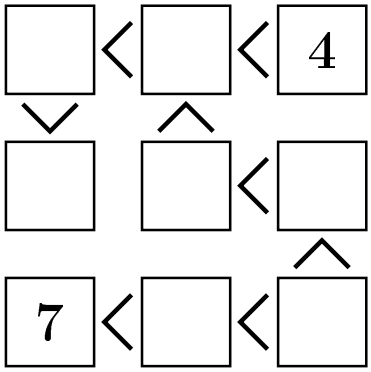


Remplir les cases vides pour que les nombres de 1 à 9 soient utilisés et que les signes «plus petit que»(<) et «plus grand que»(>) soient respectés.

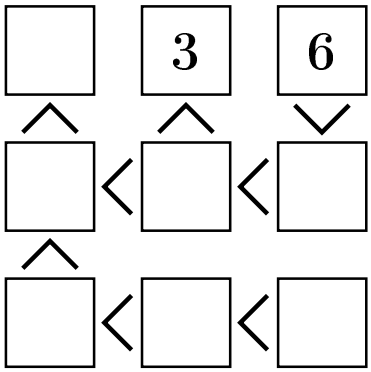


Remplir les cases vides pour que les nombres de 1 à 16 soient utilisés et que les signes «plus petit que»(<) et «plus grand que»(>) soient respectés.

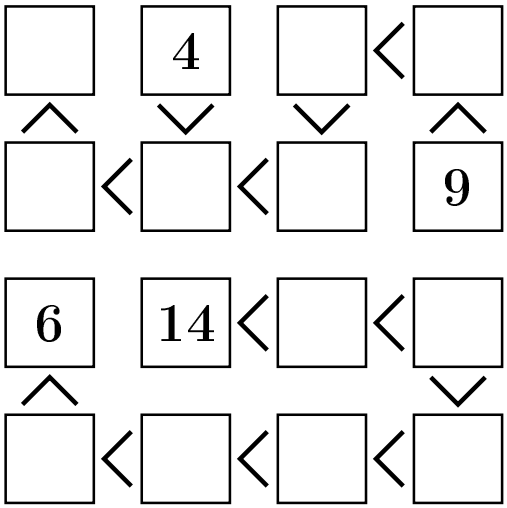


Remplir les cases vides pour que les nombres de 1 à 16 soient utilisés et que les signes «plus petit que»(<) et «plus grand que»(>) soient respectés.

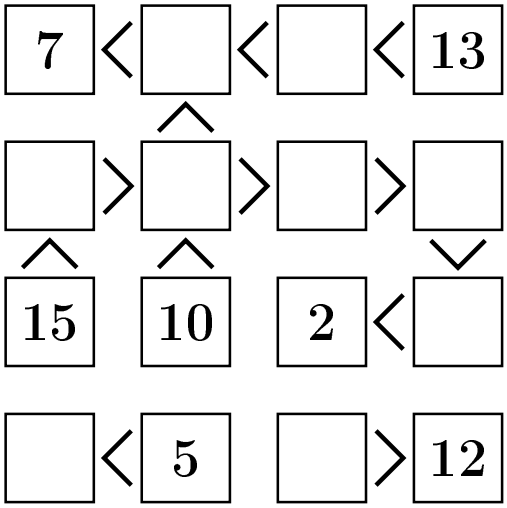

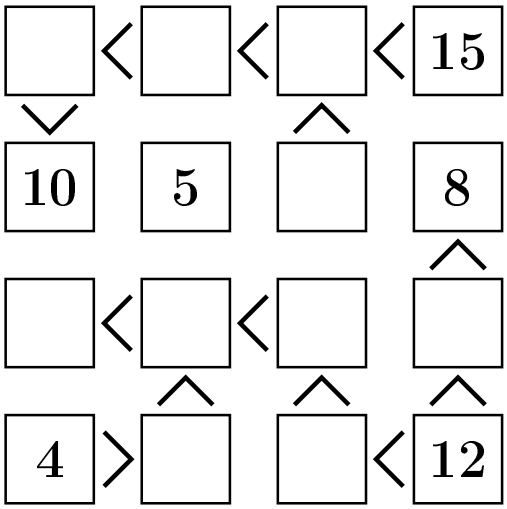
Remplir les cases vides pour que les nombres de 1 à 16 soient utilisés et que les signes «plus petit que»(<) et «plus grand que»(>) soient respectés.